Naturteknologi.dk

Enkelt og ligetil



Danmarks mange øer

Lær øernes navne, former og placering på kortet

© Naturteknologi.dk

Hvor mange øer kender du?

Danmark består af Jylland og mange øer. En ø er et landområde, der er omgivet af vand på alle sider. Nogle øer er så store, at der bor hundredtusindvis af mennesker på dem. Andre er så små, at der ikke bor nogen mennesker.

Vidste du? Danmark har over 400 øer med navn – men der bor kun mennesker på omkring 70 af dem.

Opgave – vis, hvad du allerede ved

1. Skriv navnene på alle de danske øer, du allerede kender, direkte på kortet
2. Farvelæg de øer, du kan genkende, med grønt.
3. Sæt en stjerne ved den ø, du bor på – eller den ø, der ligger tættest på dig.



© Naturteknologi.dk – Eksemplarfremstilling til undervisningsbrug er tilladt via aftale med Copydan Tekst & Node

Kan du genkende øernes former?

Øerne har forskellige former og størrelser. Nogle er lange og smalle, mens andre er mere runde eller kantede. Når du kender formen, kan du lettere finde øen på et kort – lidt ligesom at genkende en ven på afstand.

1. Træk en streg fra hver ø-silhuet til det rigtige navn i midten.
2. Farvelæg de tre øer, du lettest kunne genkende.

Få hjælp her: Er du i tvivl? Brug et atlas, eller find øerne på maps.google.com.

A



B



C



D

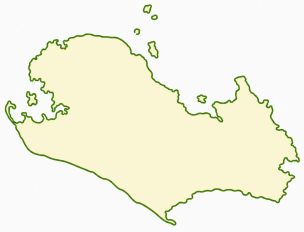

- Fyn
- Samsø
- Møn
- Lolland
- Langeland
- Falster
- Bornholm
- Sjælland

E



F

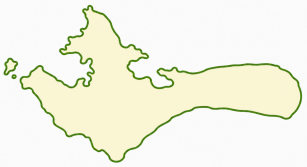

G



H



© Naturteknologi.dk – Eksemplarfremstilling til undervisningsbrug er tilladt via aftale med Copydan Tekst & Node

Hvor ligger de store øer?

Sjælland er Danmarks største ø. Fyn ligger mellem Jylland og Sjælland, mens Bornholm ligger langt mod øst i Østersøen. Lolland ligger syd for Sjælland. Vidste du, at Vendsyssel-Thy også er en ø? Limfjorden skærer nemlig hele vejen igennem og adskiller området fra resten af Jylland.

Opgave – find og farvelæg

1. Find Sjælland, Fyn, Bornholm, Lolland og Vendsyssel-Thy på kortet, og skriv deres navne.
2. Farvelæg hver ø i den farve, farvekoden herunder viser.
3. Tegn en pil mod nord på kortet, og skriv et N ved spidsen. Brug kompasrosen til hjælp.
4. Udfyld sætningerne nederst på siden med nord, syd, øst eller vest.

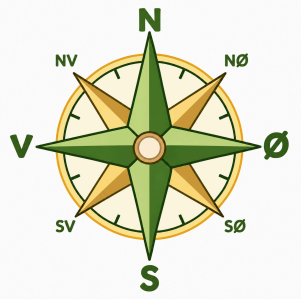

Sjælland | Fyn | Bornholm | Lolland | Vendsyssel-Thy



Fyn ligger _____ for Sjælland.

Bornholm ligger _____ for Sjælland.

Lolland ligger _____ for Sjælland.

Vendsyssel-Thy ligger _____ for Fyn.

© Naturteknologi.dk – Eksemplarfremstilling til undervisningsbrug er tilladt via aftale med Copydan Tekst & Node

OPGAVE

Tegn øerne selv

Tegn to danske øer – en nem og en lidt sværere

1. Vælg en nem ø og en lidt sværere ø. Du kan bruge forslagene over tegnefelterne.
2. Kig grundigt på øens form i et atlas eller på billederne af øerne på side 2.
3. Tegn omridset af hver ø så stort, at det fylder det meste af feltet. Skriv øens navn på linjen.
4. Farvelæg øerne, og tegn blåt vand med bølger rundt om dem.

Den nemme ø

Forslag: Bornholm, Samsø, Langeland

Tegn her

Øens navn: _____

Den lidt sværere ø

Forslag: Fyn, Lolland, Møn

Tegn her

Øens navn: _____

Få hjælp her: Se øernes former på side 2, slå dem op i et atlas, eller find dem på maps.google.com.

? Hvad var det sværeste ved at tegne den svære ø?

© Naturteknologi.dk – Eksemplarfremstilling til undervisningsbrug er tilladt via aftale med Copydan Tekst & Node

På jagt efter de små øer

Danmark har mange mindre øer. Nogle ligger tæt på de store øer, og andre ligger langt ude i havet. Til mange af dem kan man kun komme med færge – og på nogle af øerne er der flere får end mennesker! Mors ligger fx midt i Limfjorden, og Læsø ligger ude i Kattegat.

Opgave – find og farvelæg

1. Find Samsø, Læsø, Mors, Ærø, Fanø og Møn i et atlas eller på maps.google.com.
2. Skriv øernes navne på kortet – der, hvor de ligger.
3. Farvelæg hver ø i den farve, farvekoden herunder viser.
4. Udfyld sætningerne nederst på siden med nord, syd, øst eller vest. Brug kompasrosen til hjælp.

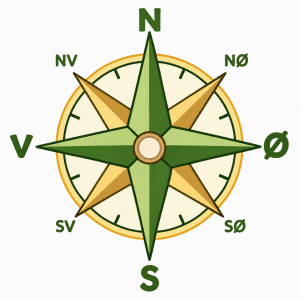

Samsø | Læsø | Mors | Ærø | Fanø | Møn



Fanø ligger _____ for Jylland.

Samsø ligger _____ for Fyn.

Ærø ligger _____ for Fyn.

Møn ligger _____ for Falster.

© Naturteknologi.dk – Eksemplarfremstilling til undervisningsbrug er tilladt via aftale med Copydan Tekst & Node

OPGAVE

Rejs rundt mellem øerne

Planlæg din egen Danmarksrejse – med bro, færge eller fly

Nogle danske øer er forbundet med broer – fx Lillebæltsbroen mellem Jylland og Fyn og Storebæltsbroen mellem Fyn og Sjælland. Til andre øer skal man sejle eller flyve. Til Bornholm tager man færgen fra Køge eller flyet fra København. Broer og færger binder Danmark sammen.

Bro | Færge | Fly | Sejlrute (blå)

Opgave 1 – Den store rejse

1. Rejs fra Jylland til Fyn, Sjælland og Bornholm. Tegn ruten med blyant.
2. Tegn bro- og færge-symboler på ruten.

Opgave 2 – Sejl til Ærø

1. Tegn en rute fra Fyn til Ærø med en blå streg.
2. Hvilken by på Fyn sejler du fra?



Min rute i opgave 1 – skriv øerne i rækkefølge:

Jylland → ____ → ____ → ____ → ____

© Naturteknologi.dk – Eksemplarfremstilling til undervisningsbrug er tilladt via aftale med Copydan Tekst & Node

DEL 1

Byg dit eget danmarkskort

Del 1: Klip ø-brikkerne ud

1. Klip alle ni brikker ud langs de stiplede linjer. Er du god til at klippe, så klip helt tæt langs kysten.
2. Find ud af, hvilken ø hver brik er. Skriv navnet med blyant på bagsiden af brikken.
3. Gem brikkerne, så de ikke bliver væk.

Vidste du? Brikkerne er lavet i næsten rigtig størrelse i forhold til hinanden. Jylland er den største brik

Klip langs de stiplede linjer

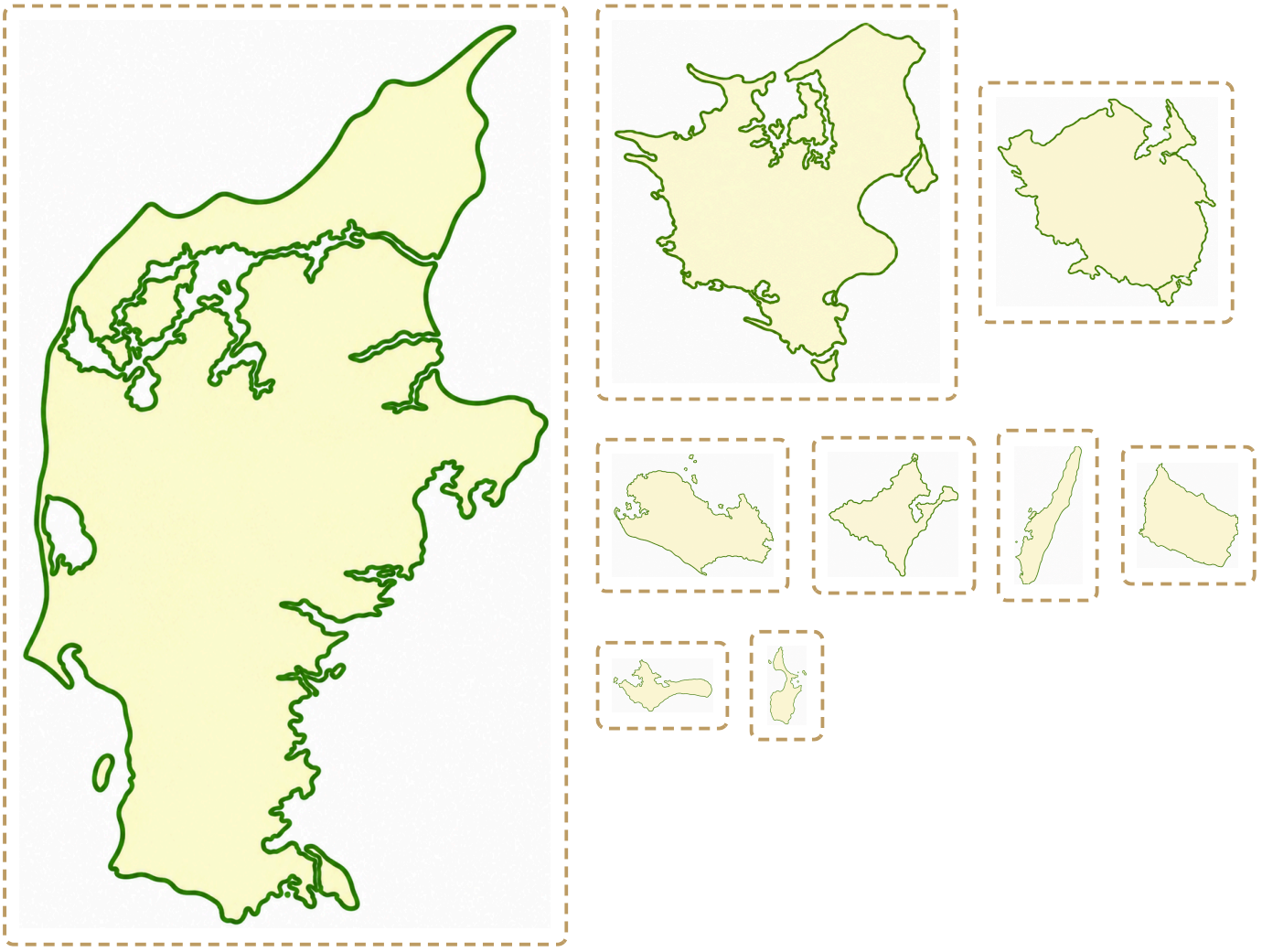

DEL 2

Byg dit eget danmarkskort

Del 2: Lim brikkerne på plads i havet

1. Læg alle brikkerne i havfeltet, der hvor de hører til. Start med Jylland. Få hjælp i et atlas eller på maps.google.com.
2. Lim brikkerne fast, når du er sikker. Bornholm skal i den lille boks i hjørnet.
3. Tegn de øer, der mangler – fx Ærø, Læsø og Anholt – og skriv navnene på alle øerne.
4. Gør kortet færdigt: Tegn broerne over Lillebælt og Storebælt, en færge og en stjerne, der hvor du bor.

Skagerrak

Bornholm

Kattegat

Nordsøen



Østersøen

Bliv ekspert i en dansk ø

Øerne i Danmark er meget forskellige. Nogle har store byer, andre har små landsbyer, klipper, klitter, strande eller skove. Nu skal du lave et faktakort om én ø – og blive klassens ekspert i netop den ø!



Bornholm | Ærø | Samsø | Læsø | Fanø | Møn | Anholt | Mors

1. Vælg en dansk ø – fx en af øerne ovenfor – og find den i et atlas eller på Google Maps.
2. Tegn øens form i den store ramme.
3. Skriv øens navn og navnene på to byer eller steder på øen.
4. Skriv tre fakta om øen, fx hvor mange der bor der, hvordan man kommer dertil, eller hvad man kan opleve.

Tegn øens form her

Øens navn

By eller sted 1

By eller sted 2

Tre fakta om min ø

1.

2.

3.

© Naturteknologi.dk – Eksemplarfremstilling til undervisningsbrug er tilladt via aftale med Copydan Tekst & Node

Ø-MESTER

Ø-mester – hvad kan du nu?

Denne gang uden atlas og uden Google Maps!

1. Skriv så mange ønavne som muligt på det tomme danmarkskort.
2. Farvelæg Sjælland, Fyn, Bornholm, Lolland, Falster og Møn i hver sin farve.
3. Find tre små øer, og sæt en ring om dem.
4. Skriv tre øer, du ikke kendte, før du begyndte forløbet.
5. Sammenlign med dit kort fra opgaven "Hvor mange øer kender du?" (side 1). Hvor mange flere øer kan du nu placere?



Tre øer, jeg ikke kendte før

1. _____
2. _____
3. _____

Så mange øer kan jeg placere

Side 1: ☐

Nu: ☐

Hvor god er jeg til øer?

☆ ☆ ☆ ☆ ☆

Farvelæg stjernerne:
1 = jeg øver mig stadig · 5 = jeg er Ø-mester!

© Naturteknologi.dk – Eksemplarfremstilling til undervisningsbrug er tilladt via aftale med Copydan Tekst & Node